Умножение с 1 и 2



Пресметнете.

6 x 1 = ...

4 x 1 = ...

9 x 1 = ...

8 : 1 = ...

5 : 1 = ...

10 x 1 = ...

2 x 1 = ...

Оградете по двойки еднаквите папагали.
После пресметнете колко общо са
папагалите, като използвате умножение.



3 x 2 птици = ... птици

Дорисувайте тези двойки череши. Пресметнете
колко общо са черешите, като използвате умножение.



5 x 2 череши = ... череши

Попълнете липсващите числа в тази редица.

0 2 4 ... 8 10 ... 14 ... 18 ...

Направете изчисленията в балоните с горещ въздух.
Свържете всеки балон с облака, който показва резултата.

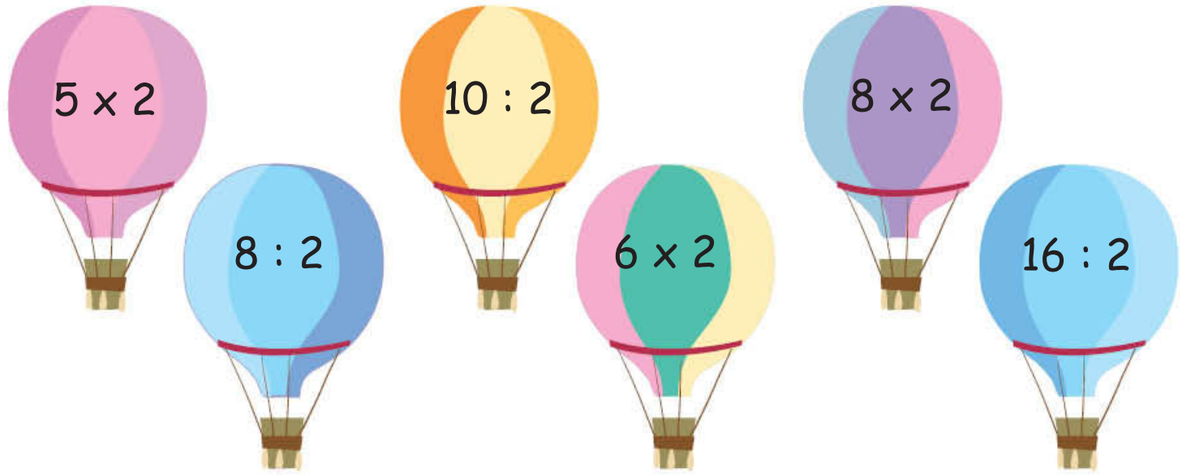

5 8 10 12 4 16

Можете ли да пресметнете?
Ако имате нужда от помощ, вижте таблиците
за умножение в края на книгата.

1	x	1	=	...
2	x	1	=	...
4	x	1	=	...
6	:	1	=	...
8	:	1	=	...
10	:	1	=	...

2	x	2	=	...
3	x	2	=	...
4	x	2	=	...
6	:	2	=	...
8	:	2	=	...
10	:	2	=	...



Умножение с 5 и 10

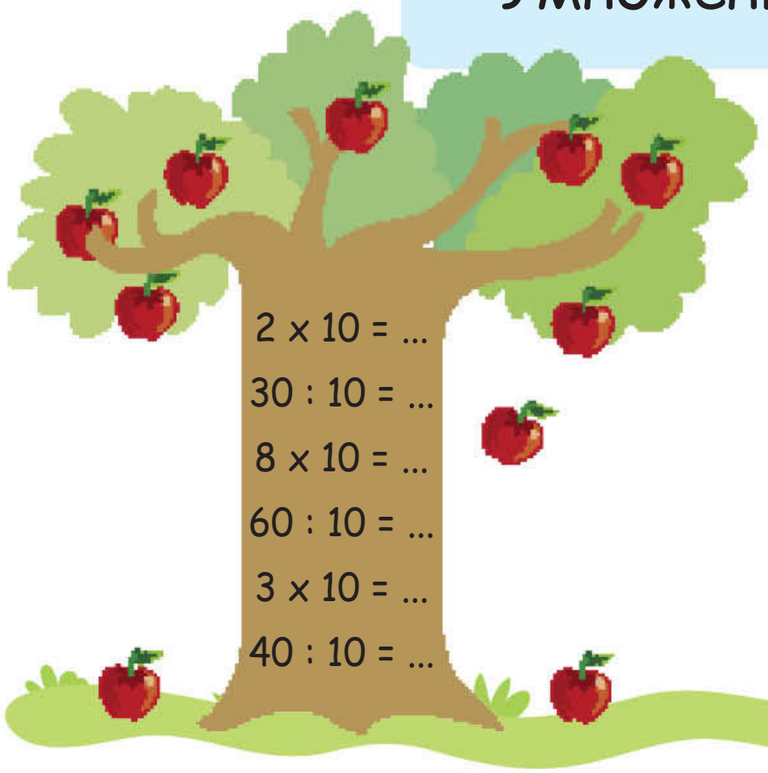

Пресметнете.



Оградете цветята, които съдържат числа с произведения от таблицата за умножение с 10.



Попълнете липсващите числа в тази редица.



Оградете групите от по 5 еднакви насекоми. После пресметнете колко общо са насекомите, като използвате умножение.



3 x 5 насекоми = ... насекоми

Кои 2 от тези равенства са грешни? Зачертайте ги.



9 x 10 = 90 10 x 5 = 50

7 x 10 = 75 7 x 5 = 30

10 x 10 = 100 9 x 5 = 45

Можете ли да пресметнете?
Ако имате нужда от помощ, вижте таблиците за умножение в края на книгата.

10	x	10	=	...	5	x	5	=	...
6	x	10	=	...	6	x	5	=	...
2	x	10	=	...	2	x	5	=	...
20	:	10	=	...	20	:	5	=	...
40	:	10	=	...	40	:	5	=	...
50	:	10	=	...	50	:	5	=	...

